ΟΝΟΜΑ.....

Ενότητα 33

1. **Υπολογίζω την περίμετρο και το εμβαδόν των ορθογωνίων.**

α)



β)

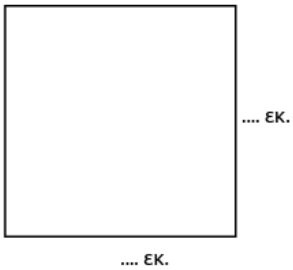

....

....

....

Απάντηση:

α) .....

β) .....

Αν α είναι το λευκό σχήμα, β είναι το χρωματισμένο και γ είναι ολόκληρο το σχήμα, αντιστοιχίζω τις κατάλληλες απαντήσεις.

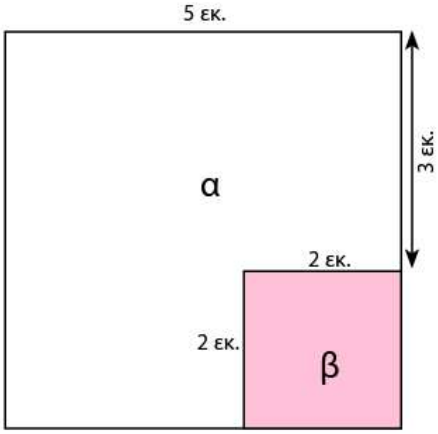

α.	Περίμετρος του β	•	• 28 εκ.	**1.**
β.	Περίμετρος α συν περίμετρος β	•	• 8 εκ.	**2.**
γ.	Περίμετρος του γ	•	• 20 εκ.	**3.**
δ.	Εμβαδόν του α	•	• 25 τ.εκ.	**4.**
ε.	Εμβαδόν του β	•	• 21 τ.εκ.	**5.**
στ.	Εμβαδόν του γ	•	• 4 τ.εκ.	**6.**

Σχεδιάζω ένα τετράγωνο:

α) με περίμετρο 10 εκ., **β)** με εμβαδόν 4 τ.εκ.